PJESA A: Çdo përgjigje e saktë vlerësohet me 3 pikë

1. Cila kuti ka më së shumti trekëndësha?

(**A**) 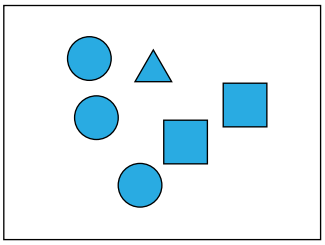

(**B**) 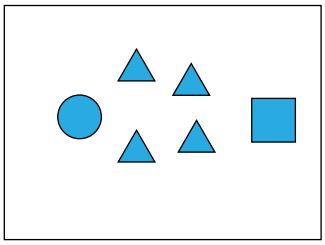

(**C**) 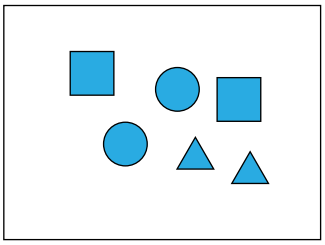

(**D**) 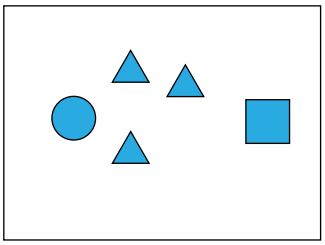

(**E**) 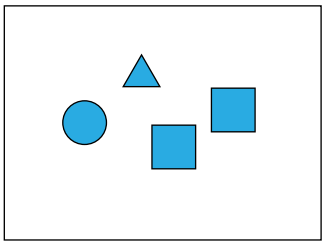

2. Artani e pret këtë foto në gjysmë dhe i vendos dy pjesët bashkë.

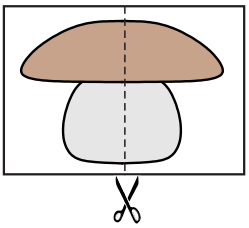

Cila mundësi i tregon dy pjesët e fotos së Artanit?

(**A**) 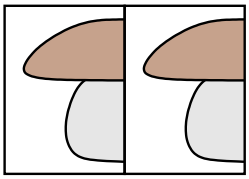

(**B**) 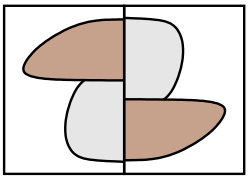

(**C**) 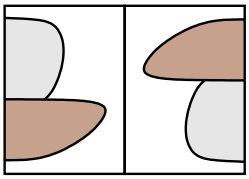

(**D**) 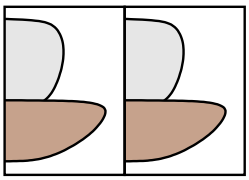

(**E**) 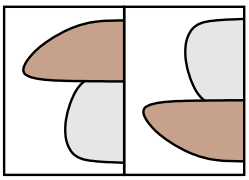

3. Figura në të djathtë tregon 5 tulla identike. Sa tulla janë duke prekur saktësisht 3 tulla të tjera?

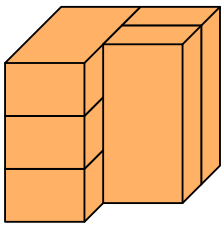

(**A**) 1 (**B**) 2 (**C**) 3

(**D**) 4 (**E**) 5

4. Një sanduiç dhe një lëng së bashku kushtojnë 12 euro. Një sanduiç dhe dy lëngje së bashku kushtojnë 14 euro.

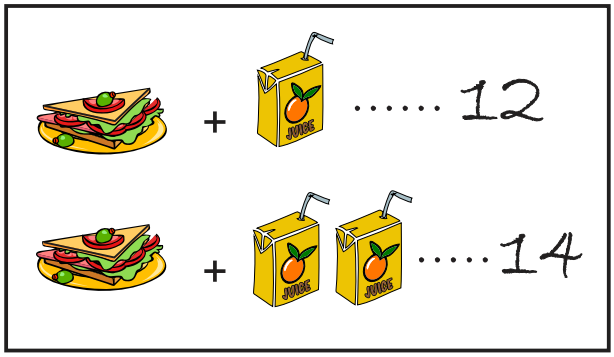

Sa kushton një lëng?

(**A**) 1 (**B**) 2 (**C**) 3 (**D**) 4 (**E**) 5

5. Në çdo rresht dhe në çdo kolonë duhet të jenë 2 monedha.

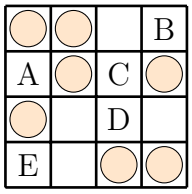

Ku duhet të vendoset monedha e fundit?

(**A**) A (**B**) B (**C**) C (**D**) D (**E**) E

6. Një majmun ka grisur një pjesë nga harta e Kapiten Bashkimit.

Cila është pjesa që mungon?

(**A**) (**B**) (**C**) (**D**) (**E**)

7. Petriti i bën bashkë 4 pjesët e enigmës për të formuar një katror. Cilën figurë mund ta bëjë ai?



(**A**)  (**B**) (**C**) (**D**)  (**E**) 

8. Një sasi e bojës u derdh në një copë letre me katrorë, siç tregohet në figurë. Sa katrorë kanë bojë mbi to?



(**A**) 16 (**B**) 17
(**C**) 18 (**D**) 19
(**E**) 20

PJESA B: Çdo përgjigje e saktë vlerësohet me 4 pikë

9. Kaltrina shkroi një numër dhe pastaj e mbuloi secilën shifër me ndonjë figurë. Shifrat e ndryshme u mbuluan me figura të ndryshme dhe shifrat e njejta u mbuluan me figurën e njejtë.
Cili numër mund te jetë shkruar nën këto figura?

♥ ♦ ♦ ♣ ♠

(**A**) 34426 (**B**) 34526 (**C**) 34423 (**D**) 34424 (**E**) 32446

10. Në secilën prej shportave në vijim fle ndonjë kafshë. Koala dhe dhelpra janë duke fjetur në shporta me të njejtin model dhe të njejtën formë.

Kanguri dhe struci kanë të njejtin model në shportat e tyre. Në cilën shportë po fle qenushi?

(**A**) shporta 1 (**B**) shporta 2 (**C**) shporta 3 (**D**) shporta 4 (**E**) shporta 5

11. Kanguri Kanga dëshiron të arrijë te koala duke mos kaluar nëpër asnjë katror të ngjyrosur.

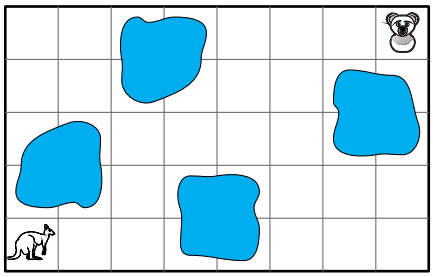

Cilën rrugë mund ta ndjekë ajo?

(**A**)

(**B**) 

(**C**)

(**D**) 

(**E**)

12. Në një nga figurat e mëposhtme është përdorur një pjesë që nuk mund të shihet në figurat tjera. Për cilën figurë është fjala?

(**A**) 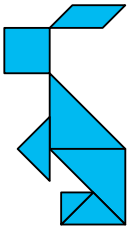

(**B**) 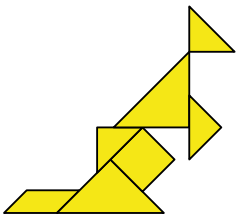

(**C**) 

(**D**) 

(**E**) 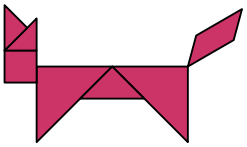

13. Cila nga mundësitë tregon pamjen nga sipër të këtyre disqeve të vendosura mbi njëra-tjetrën?

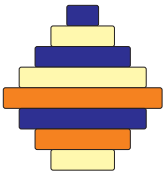

(**A**)

(**B**)

(**C**)

(**D**)

(**E**) 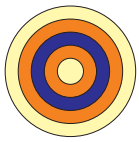

14. Cilën nga figurat vijuese do ta shohim kur e përdorim vulën e treguar?

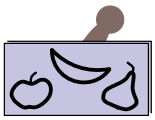

(**A**) (**B**) (**C**) (**D**) (**E**) 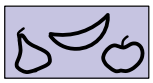

15. Krenarja e ndërton një rrugë rreth secilit katror duke përdorur pllaka si kjo në figurë.

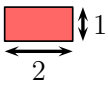

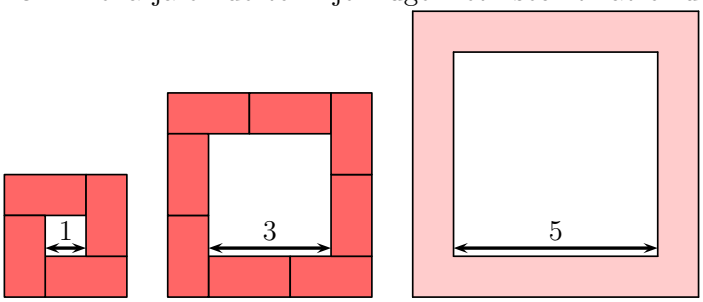

Sa pllaka përdorë ajo rreth një katrori me brinjë me gjatësi 5?

(**A**) 10 (**B**) 11 (**C**) 12 (**D**) 14 (**E**) 16

16. Ana ka këto 4 letra ngjitëse:  .
Ajo ngjit yllin pasi ngjit katrorin. Ajo ngjit yllin para se të ngjit trekëndëshin.
Me cilën figurë përfundon ajo?

(**A**) (**B**) (**C**) (**D**) (**E**)

PJESA C: Çdo përgjigje e saktë vlerësohet me 5 pikë

17. Shuma e pesë numrave në secilën shtëpi është 20.
Disa numra janë mbuluar. Cili numër fshihet nën rrethin me pikëpyetje?

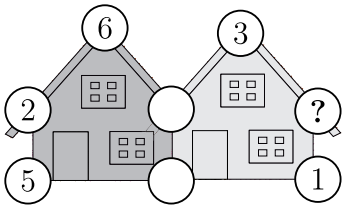

(**A**) 3 (**B**) 4 (**C**) 7 (**D**) 9 (**E**) 14

18. Disa sipërfaqe janë të treguara më poshtë. Cila sipërfaqe është më e vogla?

(**A**) 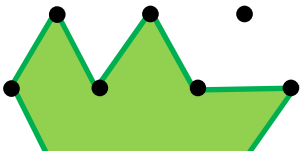 (**B**)  (**C**) 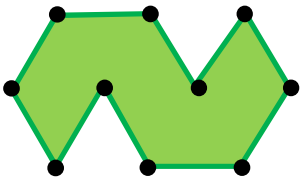

(**D**) 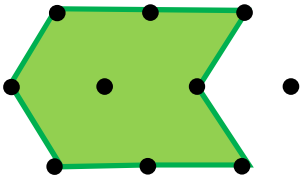 (**E**) 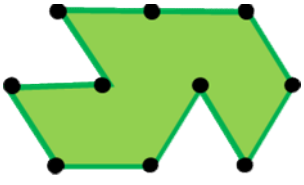

19. Çdo vit, Marigona mori arinjë lodra për ditëlindjen e saj. Për ditëlindjën e saj të parë ajo mori 1 ari lodër. Për ditëlindjen e saj të dytë ajo mori 2 arinjë lodra. Per secilën ditëlindje të radhës, ajo mori një ari lodër më shumë sesa vitin e kaluar. Sa arinjë lodra ka Marigona gjithsej kur është 6 vjeç?

(**A**) 19 (**B**) 20 (**C**) 21 (**D**) 22 (**E**) 23

20. Dinosauri Dino lëviz nga hyrja deri në dalje duke kaluar nëpër disa dhoma. Ai mund të kalojë nëpër një dhomë vetëm një herë.

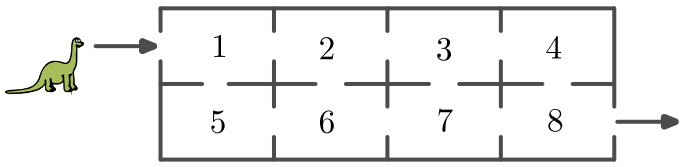

Dino i mbledh numrat përkatës teksa kalon nëpër secilën dhomë. Sa është numri më i madh që mund ta fitojë Dino?

(**A**) 27 (**B**) 29 (**C**) 32 (**D**) 34 (**E**) 36

21. Në foto, secila figurë përfaqëson një numër të ndryshëm. Cili numër duhet të shkruhet në vend të pikëpyetjes?

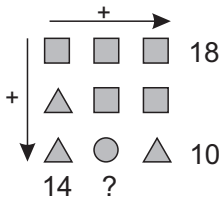

(**A**) 10 (**B**) 12 (**C**) 14
(**D**) 16 (**E**) 18

22. Tri zebra marrin pjesë ne një garë. Rina ka 15 vija, ndërsa Zara ka 3 vija më shumë se Rina. Rina ka 5 vija më pak se Biba. Sa vija ka zebra fituese?

(**A**) 16 (**B**) 18 (**C**) 20 (**D**) 21 (**E**) 22

23. Makina e Kreshnikut mund të kthehet vetëm majtas, ajo nuk mund të kthehet djathtas. Cilën nga pesë rrugët vijuese mund ta bëjë Kreshniku me makinë?

(**A**) 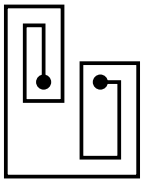 (**B**) 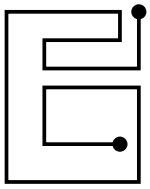 (**C**) 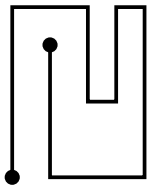 (**D**) 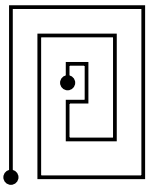 (**E**) 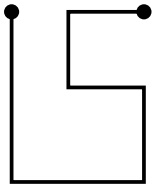

24. Në tavolinë janë 5 karta të numëruara siç tregohet në figurë. Ju mund t'i shkëmbeni dy karta në çdo hap. Sa është numri më i vogël i hapave të nevojshëm për t'i renditur kartat nga numri më i vogël deri te numri më i madh?



(**A**) 1 (**B**) 2 (**C**) 3 (**D**) 4 (**E**) 5